2. dönem

SON TEKRAR!

MART-NİSAN-MAYIS-HAZİRAN

TÜRKÇE
MATEMATİK
HAYAT BİLGİSİ

- Konu Konu Etkinlikler
- Okuma Anlama
- Zekâ Oyunları
- Bunları Biliyor musunuz?

2. SINIF

- Her aya 8 yaprak
- Çözümlü sayfalar
- 2. dönem Kazanım Pekiştirme

ONburda yayıncılık

Eş Anlamlı Sözcükler

1. Aşağıdaki sözcükleri eş anlamlılarının kullanıldığı cümlelerle eşleştiriniz.

1 basit	◯ Tarkan ünlü bir şarkıcıdır.
2 hikâye	◯ Bu görev biraz zordu.
3 meşhur	◯ Adresi çok kolay bulduk.
4 hekim	◯ Okuduğum öykü çok heyecanlıydı.
5 vazife	◯ Sıla hastalanınca doktora gitti.

Zıt Anlamlı Sözcükler

2. Aşağıda heceleri karışık olarak verilen sözcüklerin zıt anlamlılarını yazınız.

Sözcükler	Zıt Anlamlısı	Sözcükler	Zıt Anlamlısı
lık - ran - ka →	.....	ka - yu - rı →	.....
ti - ih - yar →	.....	lı - pa - ha →	.....
yu - şak - mu →	.....	li - şe - ne →	.....
ça - kan - lış →	.....	ka - lı - pa →	.....

Alfabetik Sıralama

Aşağıdaki varlıkların adını sözlükteki dizilişlerine göre yazınız.



1. ..... 2. ..... 3. .....



1. ..... 2. ..... 3. .....

ONburda yayınları

Çarpma İşlemi

1. Çarpma işlemlerini sonuçları ile eşleştiriniz.

5 x 4	16
8 x 2	18
6 x 3	20
9 x 5	14
7 x 2	45

6 x 5	10
4 x 3	32
5 x 2	30
8 x 4	50
10 x 5	12

2. Aşağıdaki eşitliklerde kutu içlerine gelmesi gereken sayıları yazınız.

5 x 3 = ☐ x 5

6 x 4 = 4 x ☐

☐ x 2 = 2 x 10

☐ x 2 = 2 x 9

7 x ☐ = 1 x 7

8 x 5 = ☐ x 8

3. Aşağıdaki problemleri çözünüz.

a. Oya 4 yaşındadır. Annesinin yaşı, Oya'nın yaşının 5 katıdır.
Oya'nın annesi kaç yaşındadır?

Çözüm:

b. Nazlı, her gün 4 sayfa kitap okuyor.
Nazlı 1 haftada kaç sayfa kitap okur?

Çözüm:

c. Sınıfımızda her sırada 2 öğrenci oturmaktadır.
Sınıfımızda 8 sıra olduğuna göre sınıf mevcudumuz kaçtır?

Çözüm:

d. Ege annesine 4 deste gül aldı.
Ege, annesine kaç tane gül almıştır?

Çözüm:

1. Aşağıdaki görsellerin altına sağlık çalışanlarının meslek adlarını yazınız. Yaptıkları işlerle eşleştiriniz.

.....

.....

Doktorlara yardım eden sağlık görevlisidir.

Diş sağlığımızla ilgilenerek, çürüyen dişlerimizi tedavi eder.

Hastaları muayene ederek hastalıkların teşhisini koyar. Hastalara ilaç yazar.

Doktorların yazdığı ilaçları hastalara verir.



.....



.....

2. Aşağıdaki görsellerin numaralarını kullanılması gereken mevsimin kutusuna yazınız.

.....

1

2

.....

3

4

5 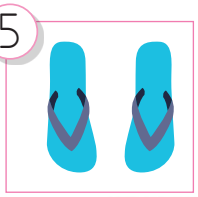

6

7

8

9

10

.....

11

12

13

14

.....

Deniz Suyu Neden Tuzludur?

Deniz suyu tuzludur, çünkü içerisinde gerçekten tuz vardır. Bu tuz sofrada, yemeklerde kullandığımız tuz ile aynıdır.

Peki bu tuz nereden geliyor?

Yeryüzündeki bazı kayalarda tuz bulunur ve civarından geçen nehir ve dereler bu kayaları aşındırır. Bu aşınma ile sularına tuz karışır. Dereler, nehirlerle birleşir, nehirler de denizlere akar. Böylece tuzlu su denizlere ulaşmış olur.

Deniz ve okyanusları tuzlandıran diğer bir etken de volkanlardır. Dünya'nın ilk oluşumu sırasında oldukça fazla volkan patlaması olmuş ve önemli miktarda tuz deniz sularına karışmıştır.

Denizleri tuzlandıran en son etken ise deniz ya da okyanusların derinliklerinde bulunan kaynak sularıdır.

Çok miktarda tuz barındıran bu sular, deniz dibindeki çatlaklardan deniz suyuna karışır ve denizlerin tuzlanmasına neden olur.

Denizlerdeki su tuzlu olmasaydı ne olurdu?

Canlı ve cansız her varlığın atık suları denizlere dökülür. Bu atık sular birçok mikrobu içinde barındırır.

İşte tuzlu su kendisine akıtılan bu mikropları eritir, yok eder. Kendi kendini dezenfekte eder. Eğer deniz tuzlu olmasaydı bu mikroplar çoğalacak, hiçbir canlı buralarda yaşayamayacaktı. Denizin içinden birçok hastalık yeryüzüne yayılacaktı.

Benekli

METİN

Afrika(1)nın yemyeşil ormanlarında Benekli isminde sevimli bir yavru papağan yaşarmış. Benekli'nin ailesi onu çok sever ve onunla ilgilenirmiş. Benekli, bu sevgiden çok memnun olsa da bazen canı çok sıkılıyormuş.

Bunun nedeni, ormanda ondan başka hiç yavru papağanın olmamasıymış.

Ormanda yaşayan başka türden kuşlar onunla arkadaşlık etmek isterlermiş. Benekli onların bu isteklerini her defasında geri çevirirmiş. Diğer kuşlar buna üzülse de Benekli'ye bir şey demezlermiş. Bu durum Benekli'nin annesinin dikkatini çekmiş. Annesi, Benekli'ye sormuş:

– Yavrum, neden diğer kuşların oyun oynama tekliflerini geri çeviriyorsun(2) Onlarla arkadaşlık kurmak istemiyorsun?

Benekli, annesine şöyle cevap vermiş:

– Anneciğim(3) o kuşlar bana hiç benzemiyor. Renkleri çok farklı ve bana göre çok küçükler.

Annesi düşüncelerinin yanlış olduğunu, farklılıkların arkadaşlık kurmaya engel olmadığını Benekli'ye anlatmış. Benekli ise annesini hiç umursamamış.

Bir gün Benekli çok sevdiği orman gezintilerinden birine çıkmış. Yine daldan dala uçarken bir avcının gizlediği tuzağa düşmüş(4) Ne yaptıysa tuzaktan kendini kurtaramamış. Bütün gücüyle bağırıp yardım istemiş, fakat kimse sesini duymamış. Tam kurtulma umudunu kaybetmişken küçük kanarya kuşu oradan geçiyormuş.

Benekli'yi gören küçük kanarya hızlıca uçup diğer arkadaşlarını çağırmış. Hep birlikte Benekli'yi tuzaktan kurtarmışlar. Benekli, onlarla arkadaşlık kurmamakla hata yaptığını anlamış. Farklılıkların arkadaş olmaya engel olmadığını görmüş ve annesine hak vermiş. Tek tek tüm yavru kuşlardan özür dilemiş. Onlarla arkadaş olmuş ve hep arkadaş kalmış.

ONburda yayınları

1. Aşağıdaki soruları metne göre yanıtlayınız.

a. Benekli nerede yaşıyormuş?

.....

b. Benekli'nin canı niçin çok sıkılıyormuş?

.....

c. Kim, Benekli'ye düşüncelerinin yanlış olduğunu söylemiş?

.....

d. Benekli niçin yardım istemiş?

.....

e. Benekli'yi kim kurtarmış?

.....

2. Metinde parantezle ( ) gösterilen yerlere sırasıyla hangi noktalama işaretleri gelmelidir? Yazınız.

(1) → ( ) (2) → ( ) (3) → ( ) (4) → ( )

3. Hangileri metinde geçen topluluk adlarıdır? İşaretleyiniz.

◯ Kuşlar ◯ Orman ◯ Aile ◯ Avcı

4. Metnin ana düşüncesini işaretleyiniz.

◯ Arkadaşlarımıza her zaman yardım etmeliyiz.

◯ Farklılıklar, arkadaş olmaya engel değildir.

◯ Yalnız gezerken tehlikeler karşısında dikkatli olmalıyız.

1. Aşağıdaki sözcüklerde her harfin bir şekil karşılığı vardır. Buna göre sözcüklere karşılık gelen şekilleri eşleştiriniz.

2. Aşağıdaki işlemlere göre "?" olan yere yazılacak sayı kaçtır?

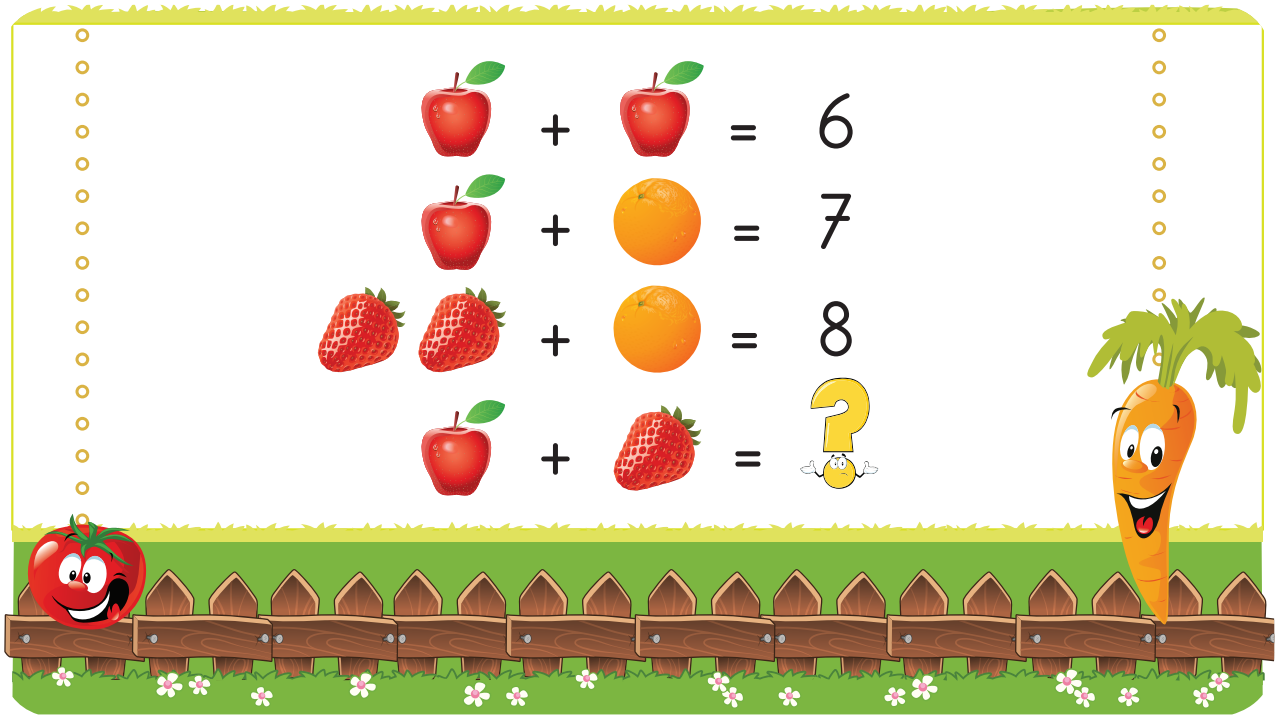

Adı Soyadı

Sınıfı : _____

Numarası : _____

4. AY
NİSAN

Adlar

1. Aşağıdaki kutulara, verilen özelliğe uygun adlar yazınız.

Çiçek Adları	Meyve Adları	Hayvan Adları	Renk Adları
.....	.....	.....	.....
.....	.....	.....	.....
.....	.....	.....	.....

2. Aşağıdaki adları türlerine göre işaretleyiniz.

Adlar	Özel Ad	Tür Adı
Kerem		
Ağaç		
Türkçe		
Kitap		
İzmir		
Aylin		
Okul		

Adlar	Tekil Ad	Çoğul Adı	Topluluk
Ördek			
İnsanlar			
Takım			
Kalem			
Orman			
Çimenler			
Meclis			

Özel Adların Yazılışı

Aşağıda verilen cümlelerdeki özel adları yuvarlak içine alınız. Doğru yazılışını noktalı yere yazınız.

- Ülkemizin başkenti ankaradır. → .....
- Kedim pamuğu gördün mü? → .....
- Bugün zafer bayramını kutladık. → .....
- Burcu vatan caddesinde oturuyor. → .....
- Çantasından ingilizce kitabını çıkardı. → .....

ONburda yayınları

Bölme İşlemi

1. Aşağıdaki çıkarma işlemlerini bölme işlemi olarak yazınız.

20 - 5 = 15 15 - 5 = 10 10 - 5 = 5 5 - 5 = 0		15 - 3 = 12 12 - 3 = 9 9 - 3 = 6 6 - 3 = 3 3 - 3 = 0	

2. Bölme işlemlerini yapınız.

28 | 4	30 | 5	18 | 2	21 | 3	36 | 4
14 | 2	27 | 3	16 | 4	40 | 5	12 | 2

3. Aşağıdaki soruları görsellere göre işlem yaparak cevaplayınız.

a.



Havuçlar, tavşanlara eşit olarak paylaştırılacaktır.

Her tavşana kaç havuç düşer?

İşlem

b.



Arılar, kovanlara eşit sayıda girecektir.

Her kovanda kaç arı olur?

İşlem

c.



Kirazlar, tabaklara eşit olarak konulacaktır.

Her tabağa kaç kiraz konulur?

İşlem

1. Aşağıdaki ulaşım araçlarının numaralarını ilgili oldukları kutuya yazınız.

Kara Yolu	Hava Yolu	Deniz Yolu	Demir Yolu
.....	.....	.....	.....

2. Aşağıda verilen acil durumlarda aranacak kurumların adlarını yazınız.

Eve hırsız girdi. → .....

Kazada yaralılar var. → .....

Köyde karışıklık çıktı. → .....

Evde yangın çıktı. → .....

3. Acil durumlarda aranacak numaraları görsellerin altına yazınız.

.....

.....

.....

AFAD

.....

.....

Sosyal Destek Hattı

.....

Sevimli Pandalar

Öyle bir hayvan düşünün ki hem kocaman olsun, hem vahşi bir türe ait olsun, hem de sizi korkutmasın. Elbette pandalardan bahsediyoruz.

Bu sevimli canlılar dünya üzerinde sadece Çin ve Tibet ormanlarında yaşar. Nesilleri tükenme tehlikesiyle karşı karşıyadır. Çin ve Dünya Doğayı Koruma Vakfı bu konuda çeşitli çalışmalar ve kampanyalar yapmaktadır. Bu kampanyalardan biri de pandayı evlat edinip yaşamı için ona destek olmaktır.

Pandaları ayı türleri içinde en farklı kılan özelliklerden biri de bambu düşkünü olmalarıdır. Her gün 38 kg'a kadar bambu yiyebilirler. Peki bu tatlı canlılar neden et değil de ot yiyorlar? Bunun nedeni pandaların tat alma duyularının olmamasıdır.

Pandalar, uykuya çok düşkündürler. Zamanlarının yarısından çoğunu bambu yiyerek, kalan kısmını da uyuyarak geçirirler.

Siyah beyaz renkleriyle diğer ayılardan farklılık gösterirler. Baş ve gövdelerindeki beyaz renk kış uykusuna yattıklarında karda görünmelerini engeller. Kol ve bacaklarındaki siyahlıklar ise yazın onları bambu gölgesinde uyurken kamufle eder. Pandalar, dev cüsseli olmalarına rağmen doğduklarında sadece bir fare büyüklüğündedir ve kördür.

Çok iyi yüzücüdürler ve çok iyi tırmanırlar.

Mevsimler

İlkbahar mevsimi bence mevsimlerin en güzelidir. Özellikle nisan ayı gelince doğa canlanır, yeşillenir.

İlkbaharda havalar ısınır. Rüzgârlar ılık ılık esmeye başlar. Ağaçların dallarında çiçekler açar. Bereketli yağmurlar yağar. Göçmen kuşlar gittikleri ülkelerden dönmeye başlar. Yemyeşil çayırlarda kuzular oynar. Kuşlar sevinç içerisinde cıvıl cıvıl şarkı söyler. Eriyen kar sularıyla dereler daha coşkun akar.

Yaz mevsiminde havalar çok sıcak olur. Açık renkli ve ince elbiseler giyeriz. Okullar yaz tatiline girer. Rengârenk sebze ve meyveler tezgâhlarda yerini alır. Kavun, karpuz, incir, şeftali yaz mevsiminde en çok tüketilen yiyecekler arasındadır. Yaz mevsiminde insanlar tatile çıkar, bol bol denize girer. Ormanlık alanlara piknik yapmaya gider, böylece kışın yorgunluğu atılmış olur.

Sonbahar mevsimi, kış mevsiminin habercisidir. Bu mevsimde havalar giderek soğumaya başlar. Sonbahar, kışa hazırlık yapılması için insanları uyarır. Güneş daha az ısı ve ışık verir. Ağaçların yaprakları sararmaya ve dökülmeye başlar. Çayırlar ve yeşil alanlardaki otlar kurur. Yağmurlu, rüzgârlı ve serin geçen günlerin sayısı artar. Sonbaharda okullar açılır ve biz okula devam ederiz. Göçmen kuşlar sıcak ülkelere göç ederler.

Kış mevsimi yılın en soğuk mevsimidir. Kışın kar yağar, kartopu oynanır. Çocuklar kardan adam yapar, eğlenir. Kışın soğuktan korunmak için çizme veya bot giyilir. Üzerimizde kalın, soğuk geçirmeyen kıyafetler olur. Ayva, portakal, mandalina, kivi gibi meyveler kışın yetişir. Bazı hayvanlar kış uykusuna yatar. Ayı, yılan, kaplumbağa ve kirpi bu hayvanlara örnek olarak verilebilir.

ONburda yayınları

1. Aşağıdaki soruları metne göre yanıtlayınız.

a. Yazara göre en güzel mevsim hangisiymiş?

.....

b. Yaz mevsiminde nasıl giysiler giyilirmiş?

.....

c. Göçmen kuşlar hangi mevsimde göç ederlermiş?

.....

d. Hangi hayvanlar kış uykusuna yatarmış?

.....

2. Hangileri yaz mevsiminin meyveleridir? İşaretleyiniz.





3. Aşağıdaki olayları ve yaşandıkları mevsimleri eşleştiriniz.

Çayırlar ve yeşil alanlardaki otlar kurur.	Yaz
İnsanlar tatile çıkar.	Sonbahar
Soğuktan korunmak için çizme ve bot giyilir.	İlkbahar
Doğa canlanır ve yeşillenir.	Kış

4. Görsellerin altına hangi mevsim olduğunu yazınız.

....

1. Tablodaki yavrular annelerinin yanına gidecektir. Yavrular, annelerinin yanına giderken bir yavru diğer yavrunun yolundan geçmeyecektir. Yavruları, annelerine götürürken gidecekleri yolları aşağıda belirtilen renklere boyayınız. (Not: Tablodaki bütün kutular boyanacaktır.)



2. Tablolardaki yerleri belirtilen harfleri alttaki kutulara yazınız. Oluşan sözcükleri okuyunuz.

	A	B	C	D
1	K	A	V	B
2	C	S	O	T
3	E	Z	R	G
4	L	İ	N	U

	A	B	C	D
1	T	R	G	E
2	I	N	L	S
3	K	Y	M	C
4	O	B	A	Ü

2B	3A	1C	3D	4B
S				

2D	4C	3B	1C	2A

Adı Soyadı

Sınıfı : _____

Numarası : _____

5. AY
MAYIS

Sebep - Sonuç İfadeleri

1. Aşağıdaki cümlelere uygun sebep ve sonuç ifadelerini yazınız.

Çok korktuğu için terledi.

Sebep:	.....
Sonuç:	.....

Konuyu anlamadı çünkü öğretmeni dinlemedi.

Sebep:	.....
Sonuç:	.....

Çiçekleri sulamadı, bu nedenle çiçekler soldu.

Sebep:	.....
Sonuç:	.....

Parası olmadığı için top alamadı.

Sebep:	.....
Sonuç:	.....

Noktalama İşaretleri

1. Cümlelerin sonuna uygun noktalama işaretlerini koyunuz.

- Yaşasın, biz kazandık ( )
- Ayy, elim yandı ( )
- Beni duyuyor musun ( )
- Dün neden gelmedin ( )
- Ey, Türk Gençliği ( )
- Her yer yemyeşil olmuş ( )

2. Aşağıdaki cümlelerde noktanın hangi amaçla kullanıldığını eşleştirerek gösteriniz.

Bu sabah 08.30'da mı uyandın?	Tarihlerde gün, ay ve yılı ayırmak için
Dr. Ahmet Bey gelecek mi?	Sıra bildirmek için
Kardeşim 15.06.2015 tarihinde doğdu.	Sözcüğü kısaltmak için
Yılın 3. ayında kar yağdı mı?	Saat ve dakikayı ayırmak için

ONburda yayınları

Kesirler

Cümlelerdeki noktalı yerleri görsellere göre tamamlayınız.



..... yarım limon, ... bütün limon eder.

..... çeyrek elma, ... bütün elma eder.



..... bütün domates, ... yarım domates eder.



..... yarım portakal, ... çeyrek portakal eder.

Zaman Ölçme

Aşağıdaki problemleri çözünüz.

a. Yandaki saat Ece'nin okula gittiği saati göstermektedir. Ece, 6 saat sonra okuldan döndüğüne göre saat kaçta eve gelmiştir?

Çözüm:

b. Yandaki takvim yaprağındaki günden 5 gün sonra hangi gün olur?

Çözüm:

Paralarımız

Aşağıdaki görsellerde alınan ürün ve satıcıya ödenen paralar verilmiştir. Her bir ürün için ne kadar para üstü alınacağını bulunuz.

Para üstü: .....

Para üstü: .....

1. Aşağıdaki harita üzerinden ülkemizin yerini bularak boyayınız.

2. Aşağıdaki ifadelerden doğru olanlara "D", yanlış olanlara "Y" yazınız.

- ( ) Ülkemizin başkenti İstanbul'dur.
- ( ) Millî marşımızın adı İstiklal Marşı'dır.
- ( ) Bayrağımız beyaz zemin üzerinde kırmızı ay ve yıldızdan oluşur.
- ( ) Millî marşımızın şairi Mustafa Kemal Atatürk'tür.
- ( ) Bayrağımız, bağımsızlığımızın sembolüdür.
- ( ) Ülkemizin adı Türkiye Cumhuriyeti Devleti'dir.

3. Millî bayramlar ile bayram olma nedenlerini eşleştiriniz.

29 Ekim Cumhuriyet Bayramı	Türkiye Büyük Millet Meclisi açıldı.
23 Nisan Ulusal Egemenlik ve Çocuk Bayramı	Kurtuluş Savaşı kazanıldı.
19 Mayıs Atatürk'ü Anma Gençlik ve Spor Bayramı	Cumhuriyet ilan edildi.
30 Ağustos Zafer Bayramı	Atatürk, Kurtuluş Savaşını başlatmak için Samsun'a gitti.

DİKKAT!

Sizler için ilginç bilgileri bir araya getirdik. Eminiz okurken ağzınızı kapatmakta zorlanacaksınız.

Yalnızca tavşanlar ve papağanlar kafalarını çevirmeden arkalarını görebilir.

Soğan doğrarken sakız çiğnerseniz gözünüzden yaş gelmez.

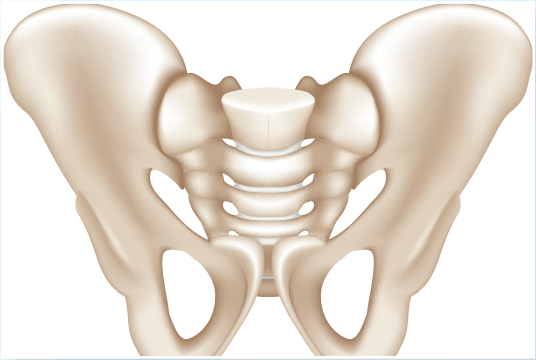

İnsanın kalça kemiği betondan daha sağlamdır.

Kelebekler, ayaklarıyla tat alır.

İnekler müzik dinlendiklerinde daha çok süt verir.

Hapşırırken burnunuzu ve ağzınızı aynı anda asla kapamayın. Gözleriniz yerinden çıkabilir.

Bizim Uçurtmamız

METİN

Bahar rüzgârları ılık ılık esmeye başladı. Gökyüzünde rengârenk uçurtmalar süzülüyordu. Çocuklar ellerinde uçurtma ipleri ile etrafta koşuşturuyorlardı. Bazı çocuklar yeni uçurtma yapmaya çalışıyor, bazısı da gökyüzündeki uçurtmaları seyrediyordu.

Ağabeyim ve arkadaşları uçurtma yapmak için toplanmışlardı. Aralarında iş bölümü yapmışlardı. Ben de onlarla beraber uçurtma yapmak istiyordum. Her seferinde "Sen küçüksün." diyerek beni aralarına olmazlardı. Buna üzülsem de sesimi çıkarmazdım. Sessiz sessiz uçurtma yapanları izlerdim. Ağabeyim ve arkadaşları iki hafta sonra yapılacak yarışmaya hazırlanıyorlardı. Bu yarışmada en iyi uçan uçurtma seçilerek ödül verilecekti.

Ertesi sabah ağabeyim, elinde bazı malzemelerle evimizin bahçesinde göründü. Elinde bant, ip, çıta ve renkli naylonlar vardı. Bir süre sonra arkadaşları da geldi bahçemize. Hemen çalışmaya koyuldular. Uçurtmalarını tamamlamak istiyorlardı. Kuyruk kısmı yapılırken aralarında anlaşmazlık çıktı. Kimisi kuyruğun uzun ve rengârenk olmasını istiyor, kimisi de kısa ve tek renk olmasını istiyordu. O sıra dayanamadım ve resim defterime daha önceden çizdiğim kuyruk tasarımlarımdan en güzelini gösterdim. Kıvrımlı ve üç renkten oluşan bir kuyruk tasarımıydı bu. Hepsi öylece bakakaldılar.

Çok beğenmişlerdi. Ağabeyim çok şaşırmıştı. Hep beraber kuyruğu yapmaya başladık. Dikkatlice ve yavaş yavaş yaptık. Üç gün boyunca çalıştık. Uçurtmayı tamamlayıp birkaç gün test ettik. Uçurtmamız çok güzel uçuyordu.

Yarışma günü gökyüzü çeşit çeşit uçurtmalarla doldu. Uçurtmamız, görenleri hayran bırakıyordu. Yarışma bitiminde ağabeyim sevincinden beni kucakladı. Hep birlikte çalışarak yarışmayı kazanmıştık.

ONburda yayınları

1. Aşağıdaki soruları metne göre yanıtlayınız.

a. Bahar rüzgârları nasıl esmeye başlamış?

.....

b. Çocuklar, ellerinde uçurtma ipleri ile ne yapıyorlardı?

.....

c. Çocuğun ağabeyi ve arkadaşları niçin toplanmışlardı?

.....

d. Çocuklar arasında hangi konuda anlaşmazlık çıktı?

.....

e. Çocuk, ağabeyine ve arkadaşlarına ne gösterdi?

.....

2. Hangileri çocuğun ağabeyinin uçurtma yapmak için elinde getirdiği malzemelerdir? İşaretleyiniz.


Renkli karton ◯


İp ◯


Makas ◯


Çıta ◯

Yapıştırıcı ◯

Bant ◯

Renkli naylon ◯

Kurdele ◯

3. Metnin konusunu işaretleyiniz.

◯ Bahar gelince çocukların uçurtma uçurmak için kırlara gitmesi.

◯ Çocukların uçurtma yarışmasına katılmak için birlikte çalışması.

◯ Çocukların satın aldıkları uçurtma ile yarışmayı kazanmaları.

1. Aşağıdaki yapbozun parçaları numaralandırılmıştır.

Bu parçaların yapbozda hangi bölüme yerleştirileceğini parçalardaki numaraları yapboza yazarak gösteriniz.

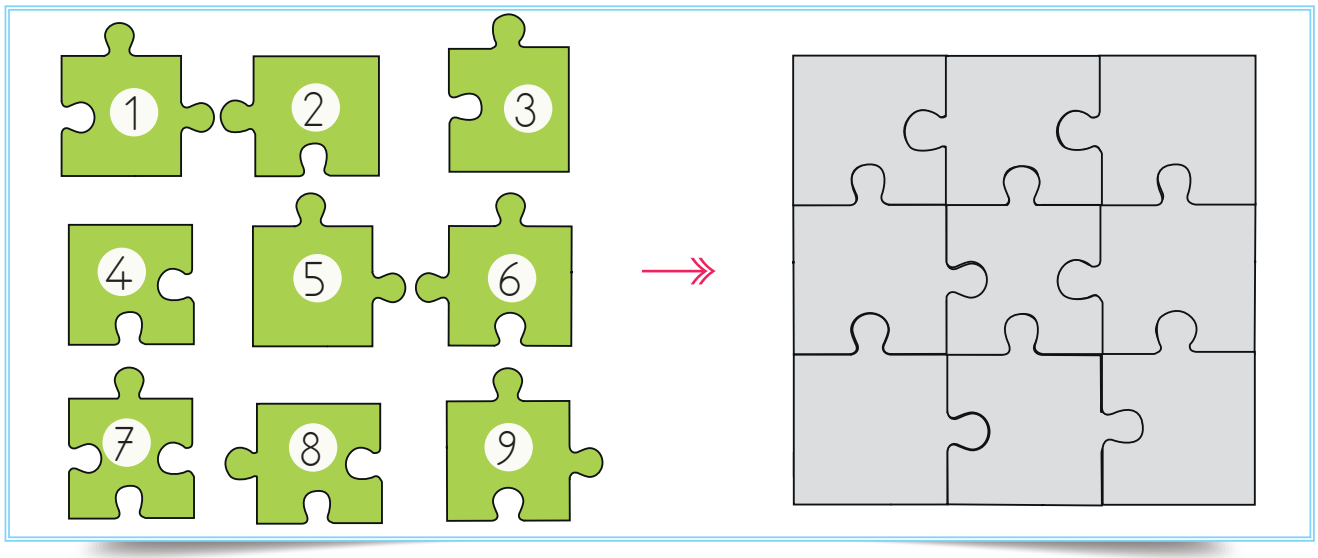

2. **Bilgi:** Yukarıya doğru uzun olan kutulara yukarı uzanan harfler, aşağıya doğru uzun olan kutulara aşağıya uzanan harfler, küçük kutulara noktalı ve noktasız harfler yazılacaktır.

Aşağıda harfleri karışık olarak verilen sözcükleri bularak yukarıdaki bilgilere göre uygun kutulara yazınız.

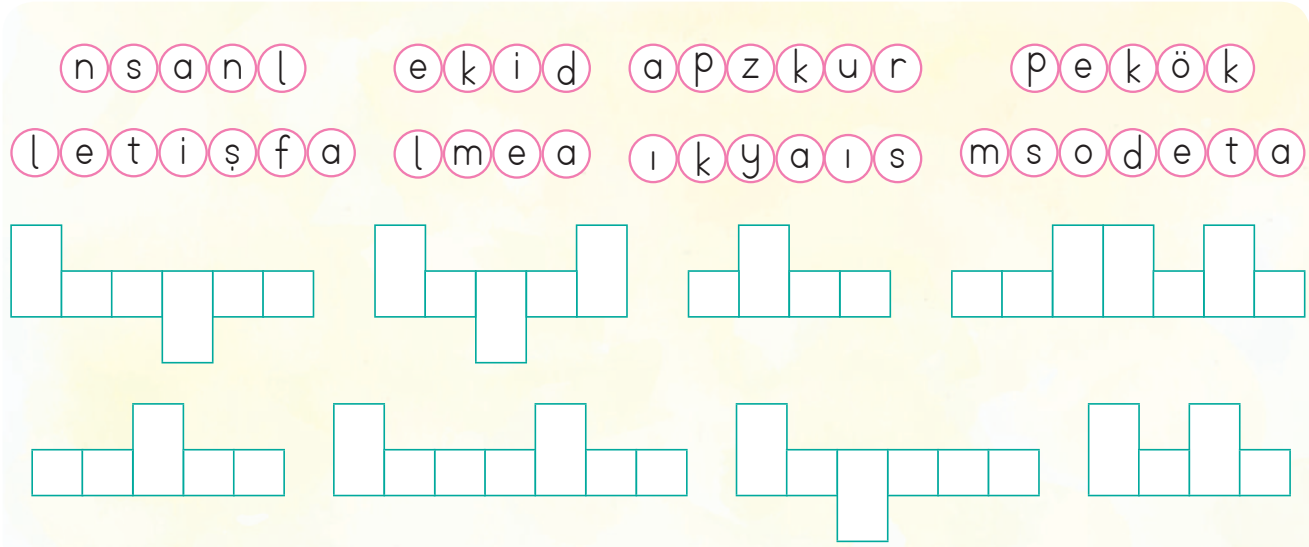

Adı Soyadı

Sınıfı : _____

Numarası : _____



6. AY
HAZİRAN

Hikâye Unsurları

Aşağıdaki metnin hikâye unsurlarını yazınız.

Hafta sonu Merve ve annesi hayvanat bahçesine gittiler. İlk önce maymunların olduğu bölüme geldiler. Maymunlar çok komikti, Merve'ye çeşit çeşit oyunlar yaptılar. Ardından yılanların olduğu bölüme geçtiler. Merve burada biraz ürktü. Büyük küçük birçok yılan vardı. Bu bölümde fazla durmadılar. Merve en çok tavus kuşlarını sevdi. Renk renk tüyleriyle adeta gökkuşağını andırıyorlardı. Hayvanat bahçesindeki bütün bölümleri gezdiler. Merve bu gezide şimdiye kadar görmediği birçok hayvanı gördü.

Güzel ve yorucu bir günün ardından hayvanat bahçesinden ayrıldılar.

Kahramanlar	Yer	Zaman	Olay

Şiirde Konu ve Ana Duygu

1. Şiirin ana duygusunu işaretleyiniz.

Her gün bu kadar güzel mi deniz?
Böyle mi görünür gökyüzü her zaman?
Her zaman güzel mi bu kadar,
Bu eşya, bu pencere.

Orhan Veli KANIK

- ◯ Memleket özlemi
- ◯ Yaşama sevinci
- ◯ Deniz sevgisi

2. Şiirin konusunu işaretleyiniz.

Bahar geldi, çıksın uçurtmalar,
Evler, minareler üstüne,
Kimini kapıp götürsün rüzgâr.
Kimi takılsın telgraf direklerine.

Ş. Enis REGÜ

- ◯ Bahar
- ◯ Rüzgâr
- ◯ Uçurtma

ONburda yayınları

1. Aşağıdaki grafikte bir kümesteki hayvanlar gösterilmiştir. Soruları grafiğe göre yanıtlayınız.

Girafik: Kümesteki Hayvanlar

Hayvanlar	Hayvan Sayısı
Ördek	
Tavuk	
Kaz	
Hindi	

Not: Her şekil 5 hayvanı göstermektedir.

a. Kümesteki tavuk sayısı, hindi sayısından kaç fazladır?

Çözüm:

b. Kümesteki ördek ve kazların toplam sayısı kaçtır?

Çözüm:

c. Kümeste toplam kaç hayvan vardır?

Çözüm:

Uzunluk Ölçme

Aşağıda verilenlere göre sembollere karşılık gelen uzunlukları bulunuz.

→ 2 cm → 3 cm → 1 cm

★ → ..... cm

▲ → ..... cm

■ → ..... cm

Tartma

Aşağıdaki problemleri çözünüz.

a. Her birinde 9 kg şeker bulunan 5 çuval şekerin 27 kg'ı satılıyor. Geriye kaç kilogram şeker kalmıştır?

Çözüm:

b. Aslı ile Cenk'in ağırlıkları toplamı 81 kg'dır. Cenk 43 kg ise Aslı, Cenk'ten kaç kilogram hafiftir?

Çözüm:

1. Güneş'in doğduğu yerden yaralanarak yönleri yazınız.

.....



.....

.....

.....

2. Aşağıdaki görsellerde Dünya'nın hareket türleri gösterilmiştir. Hareketlerin türünü ve bu hareketler sonucunda gerçekleşen olayları yazınız.

Hareket Türü: .....

Gerçekleşen Olay: .....

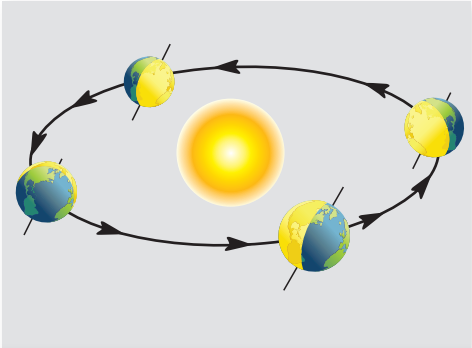

Hareket Türü: .....

Gerçekleşen Olay: .....

3. Görselleri verilen mevsimlerin adlarını alta, aylarını ise yan tarafa yazınız.

.....

.....

.....

.....

.....

.....

.....

.....

.....

.....

.....

.....

.....

.....

.....

.....

İnsan bedeni sırlarla doludur. İşte bedenimizle ilgili çok az bilinen ilginç bilgiler.

İnsan kalbinin boyutu kişinin yumruğuna eşittir. Kadın kalbi, erkek kalbinden daha hızlı atar. İnsan kalbi, kanı o kadar sert bir şekilde pompalar ki bir binanın dördüncü katına kadar fışkırtabilir.

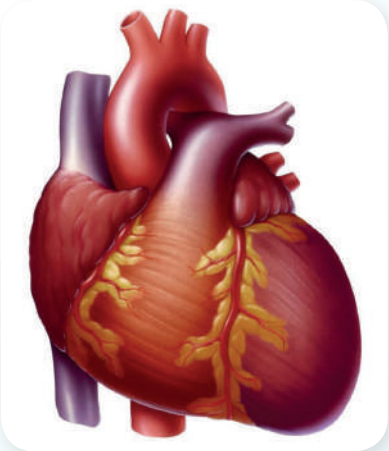

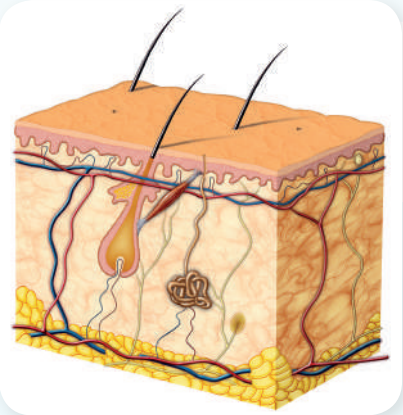

İnsan derisi kişinin hayatı boyunca yaklaşık bin kez tamamen yenilenir.

El tırnakları, ayak tırnaklarından dört kat daha hızlı uzar.

İnsan bedenindeki en güçlü kas, dildir. Herkesin kendine özgü bir dil izi vardır. Tıpkı parmak izlerinde olduğu gibi.

Çocuklar, ilkbahar mevsiminde daha hızlı büyür.

İnsan bedeninde kendi kendini iyileştiremeyen tek organ diştir.

Ağaçların Önemi

METİN

Ağaçların insan yaşamı üzerinde birçok etkisi bulunmaktadır. Ağaçlar oksijen üretir. Ağaçlar sayesinde nefes alırız. İnsanlar için zararlı olan hava kirliliği ağaçlar yoluyla azaltılabilir.

Ağaçlar çevreye güzellik katar. Ormanların olduğu yerler hem yemyeşil görünür hem de havası çok temiz olur.

Ormanlar birçok canlı türünün evidir. Kuşlar, tilkiler, ayılar, sincaplar ve daha birçok hayvan ormanlarda yaşar.

Ağaçlar gölgelik alan oluşturarak havayı serinletir. Özellikle büyük şehirlerdeki gürültü ve hava kirliliğinin önlenmesi insan sağlığı için büyük önem taşır.

Stres, içinde yaşadığımız çağın en büyük sağlık sorunlarından biridir. Ormanlar, şehir hayatının üzerimizde oluşturduğu stresi azaltarak, huzurlu olmamıza yardımcı olur.

Bazı bölgelerde kışlık yakacak ihtiyacı ağaçlardan elde edilir. Kuruyan ağaçlar kesilir ve odun hâline dönüştürülür.

Evlerimizde yer alan koltuk, kanepe, sehpa ve okulumuzda kullandığımız sıra, masa, dolap gibi birçok eşya ağaçlardan yapılır.

Ağaçlar, tüm dünya canlıları için gıda kaynağıdır. Bahçelere dikilecek tek bir meyve ağacı bize kilolarca meyve verebilir. Bu meyveleri sadece insanlar tüketmemektedir. İnsanlar dışında birçok hayvan türü için gıda deposu özelliği taşımaktadır.

Günümüzde ormanlık alanlar sürekli azalmaktadır. Bu yüzden ağaç dikmek çok önemlidir. Tüm gücümüzle ağaç dikmeye çalışmalı ve ormanlarımızı korumalıyız.

ONburda yayınları

1. Aşağıdaki soruları metne göre yanıtlayınız.

a. Ağaçlar ne üretir?

.....

b. Ormanların olduğu yerler nasıl görünür?

.....

c. Yaşadığımız çağın en büyük sağlık sorunlarından biri nedir?

.....

d. Okulumuzdaki hangi eşyalar ağaçtan yapılır?

.....

e. Tüm gücümüzle ne yapmaya çalışmalıyız?

.....

2. Aşağıdaki görsellerden hangilerinin adı metinde geçiyor? İşaretleyiniz.



3. Metne göre doğru olan ifadeleri işaretleyiniz.

- ◯ Ağaçlar çevreye güzellik katar.
- ◯ Yaş ağaçlar kesilerek odun hâline getirilir.
- ◯ Ağaçlar yalnızca insanlar için gıda kaynağıdır.
- ◯ Ormanlar, huzurlu olmamıza yardımcı olur.

4. Metnin ana düşüncesini işaretleyiniz.

- ☐ Ormanlardan yararlanarak kendimize eşyalar yapmalıyız.
- ☐ Gıdalarımızı ağaçlardan sağlamalıyız.
- ☐ Ağaç dikmeli ve ormanlarımızı korumalıyız.

1. Aşağıdaki tartılar dengededir. Buna göre "?" ile gösterilen yere hangi ağırlıklar konulmalıdır? İşaretleyiniz.

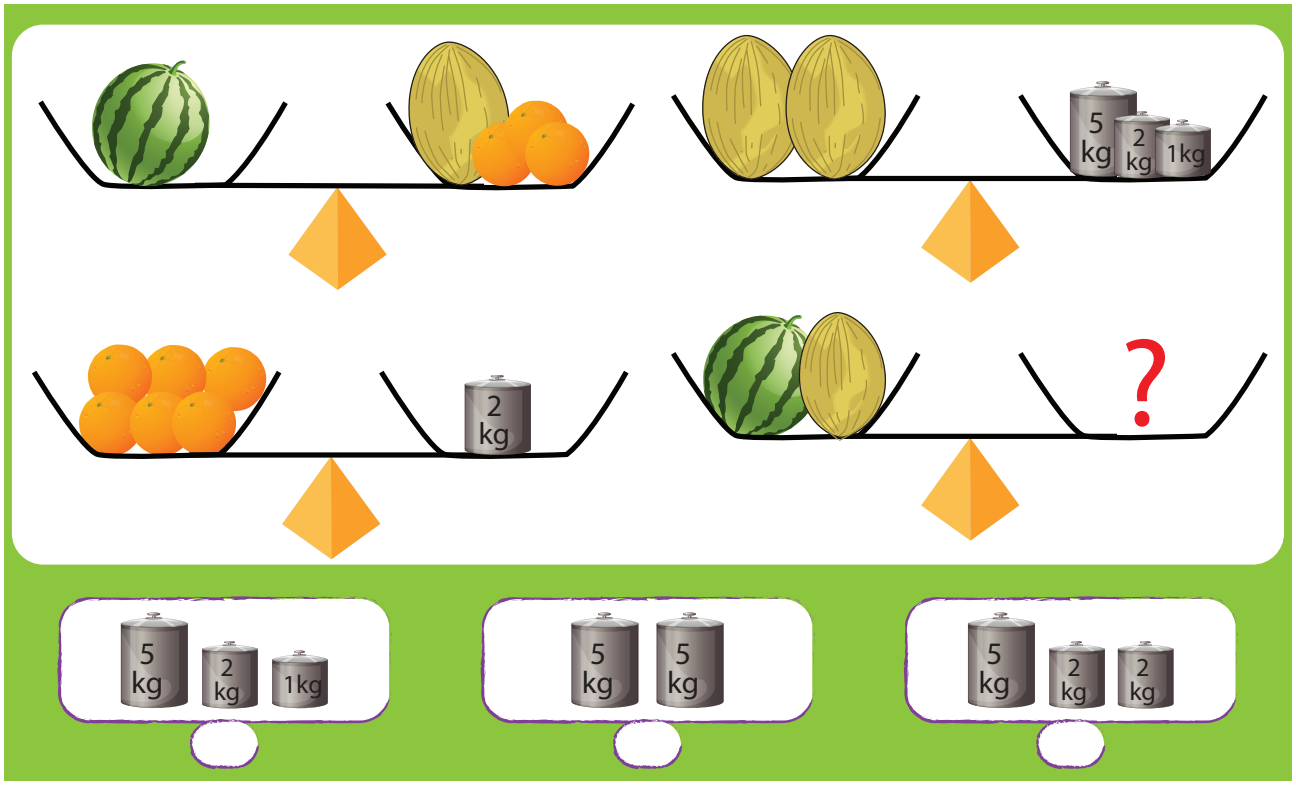

2. Tablodaki sembollerin soldan sağa ve yukarıdan aşağıya doğru toplamları tablonun sağında ve altında verilmiştir.
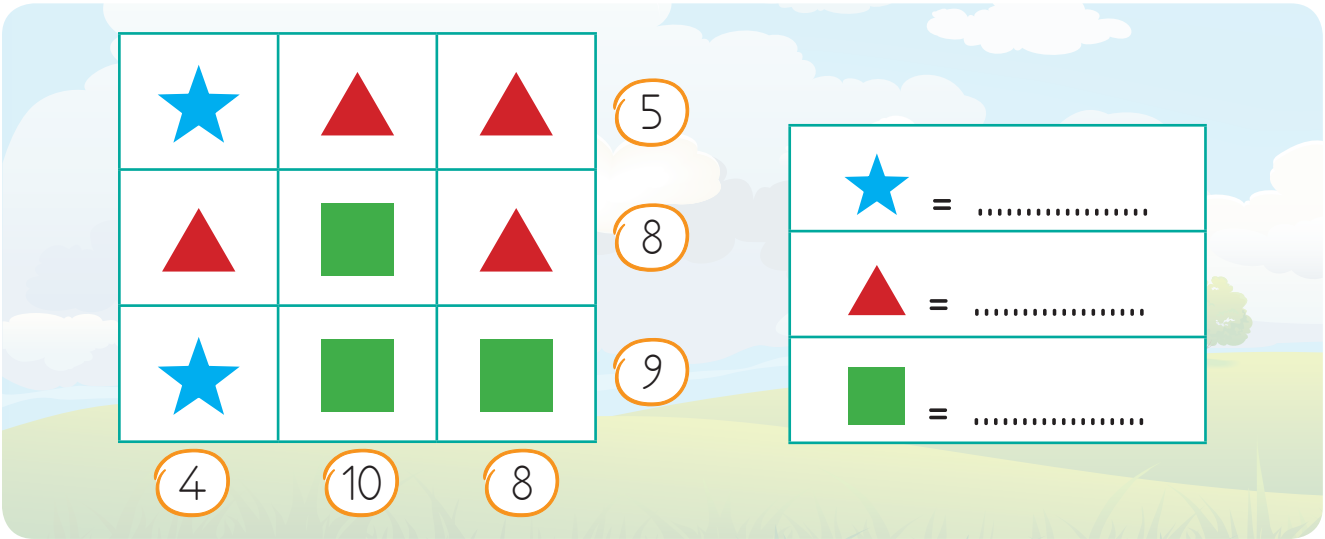
Buna göre sembollerin değerlerini bulunuz? (Semboller sıfırdan ve birbirlerinden farklı sayılardır.)